GGM
8

Lire l'heure

Je lis l'heure sur l'**horloge** à l'aide des aiguilles.

La petite aiguille indique les **heures**.

La grande aiguille indique les **minutes**.

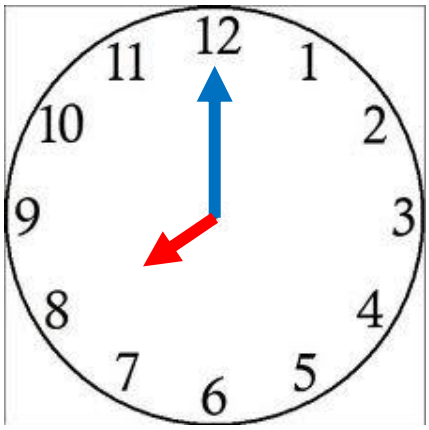

- Lorsque l'aiguille des minutes est sur le 12 : l'heure est entière

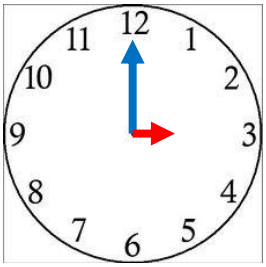

Il est trois heures **pile**

- Lorsque l'aiguille des minutes est sur le 6 : la moitié de l'heure ou une demi-heure est passée : c'est la demie

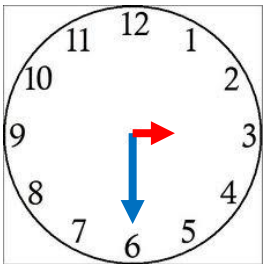

Il est trois heures **et demie**

As-tu compris ? Place les aiguilles sur les horloges :

4 heures



5 heures



10 heures et demie